MATERIAL DE COMPLEMENTAÇÃO
CARGA HORÁRIA
1º ANO - 2021

ESCOLA MUNICIPAL ANÍBAL KHURY NETO
ENSINO FUNDAMENTAL

SEMANA DE 04 À 08 DE OUTUBRO DE 2021

PROFESSORAS: 1º"A" NEIVA FERREIRA DA SILVA E

ZULEIDE GONÇALVES FREIRES PINHEIRO

PROFESSORAS: 1º"B" SILVIA LUCIANA DA SILVA E

MARCILENE PARANHOS DA SILVA MENDES

CRONOGRAMA DA SEMANA

SEGUNDA-FEIRA 04/10	TERÇA-FEIRA 05/10	QUARTA-FEIRA 06/10	QUINTA-FEIRA 071/0	SEXTA-FEIRA 08/10
LEM	LÍNGUA PORTUGUESA 2 AULAS	MATEMÁTICA 2 AULAS	MATEMÁTICA 2 AULAS	CIÊNCIAS 2 AULAS
ARTE	CIÊNCIAS 2 AULAS	GEOGRAFIA 2 AULAS	GEOGRAFIA 2 AULAS	LÍNGUA PORTUGUESA 2 AULAS
LÍNGUA PORTUGUESA	----	----	----	----
MATEMÁTICA	----	----	----	----
ATIVIDADES COMPLEMENTARES				
OFICINA DE LÍNGUA PORTUGUESA	HISTÓRIA 2 AULAS	OFICINA DE LÍNGUA PORTUGUESA	OFICINA DE MATEMÁTICA	OFICINA DE LÍNGUA PORTUGUESA
ENSINO RELIGIOSO	EDUCAÇÃO FÍSICA	OFICINA DE MATEMÁTICA	EDUCAÇÃO FÍSICA	HISTÓRIA

Abra as janelas do
coração e deixe
tudo que é
bom entrar: alegria,
amor e carinho.
Lalina Mell
QUETUDOFLORESÇA
Feliz
Semana!

OBSERVE O CALENDÁRIO E RESPONDA:

- EM QUE MÊS ESTAMOS?
- QUAL ANO?
- QUE DIA DA SEMANA É HOJE?
- ONTEM FOI?
- AMANHÃ SERÁ?
- QUE DIA DO MÊS DE SETEMBRO É HOJE?
- ONTEM FOI?
- AMANHÃ SERÁ?

RESPONDA DIARIAMENTE!!!

INICIE AS ATIVIDADES COM O CABEÇALHO NO CADERNO.

ESCOLA:_____

ALUNO (A):_____

PROFESSORAS:_____

DATA:_____/_____/_____

SEGUNDA-FEIRA
04/10

MANHÃ

- LEM
- ARTE
- LÍNGUA PORTUGUESA
- MATEMÁTICA

TARDE

- OF. LÍNGUA PORTUGUESA
- ENSINO RELIGIOSO

Good bye

Hello

©www.danieducat.com.br

Inglês

ARTE

DESENHO DE OBSERVAÇÃO

Observe os desenhos .Tente desenhar o que você mais gostou.

Língua Portuguesa

Ligue os desenhos aos seus sons iniciais.

_____ _____ _____ _____ _____

1- LEIA E COPIE:

EU	AI	AU	ÃO
_____	_____	_____	_____
OI	UI	IA	ÃE
_____	_____	_____	_____

2- COMPLETE COM OS ENCONTROS VOCÁLICOS

VAMOS CONTAR?
QUANTOS DEDOS LEVANTADOS?



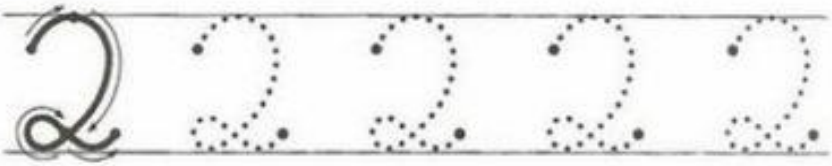

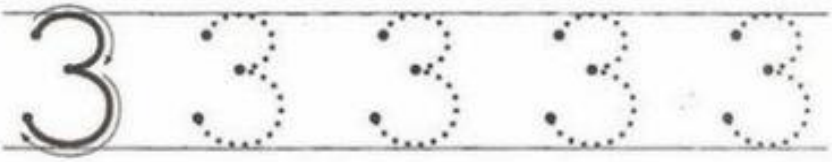

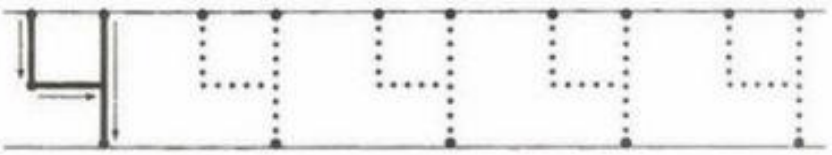

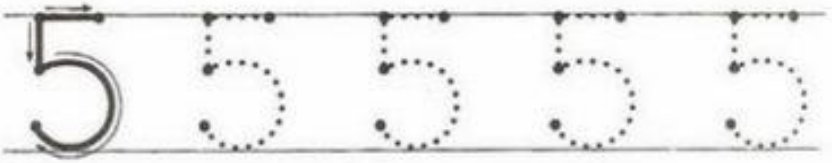

OF. L. PORTUGUESA

ESSA É A FAMÍLIA DO B MAIÚSCULA. CUBRA OS PONTILHADOS

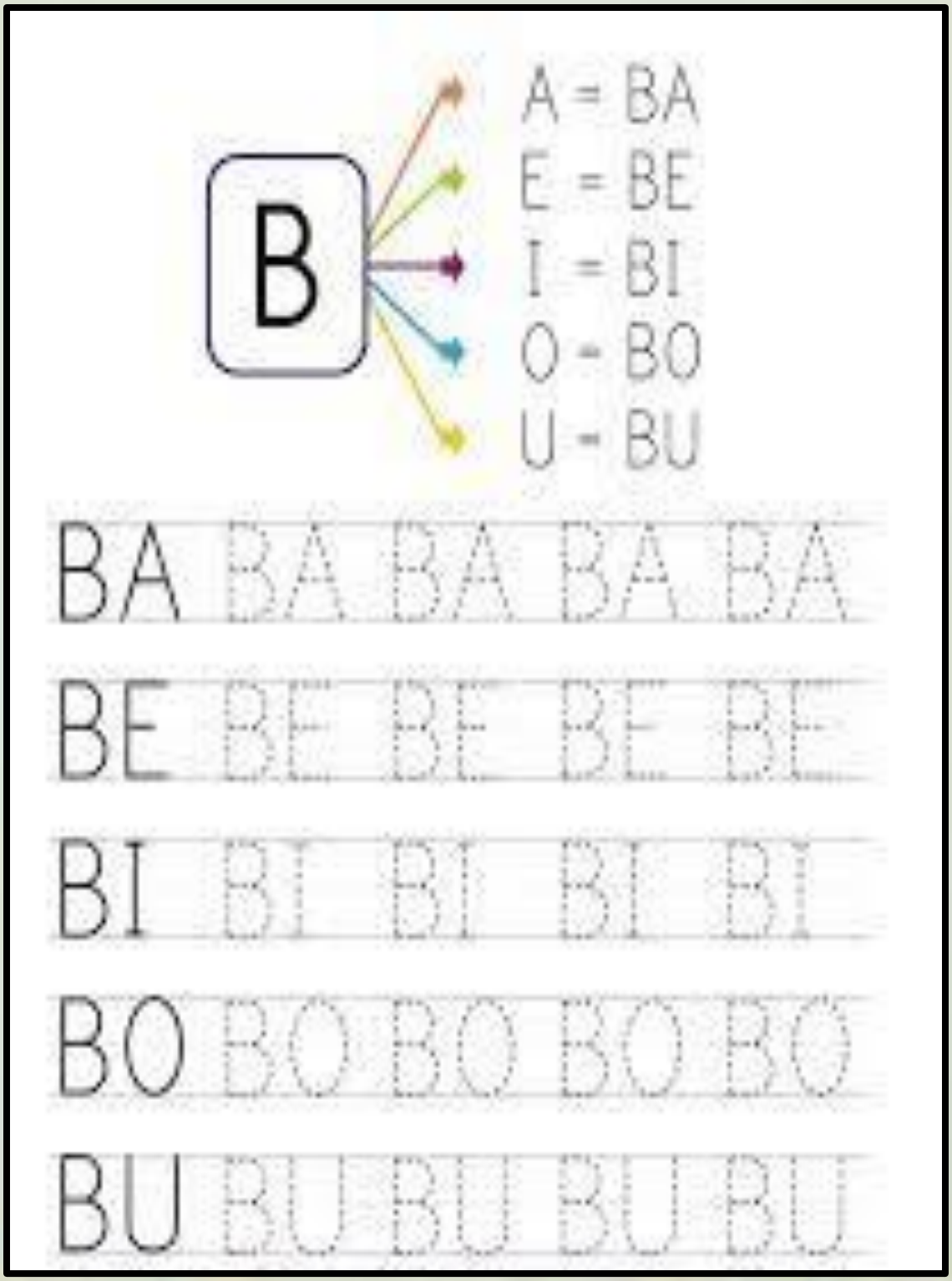

ENSINO RELIGIOSO

Ligue os pontos e descubra o que Deus vai restaurar na sua vida

Jesus enxuga todas
as nossas lágrimas
e traz de volta a alegria
em nosso _____.

nome:_____ idade:_____ data:____/____/_____

TERÇA-FEIRA
05/10

MANHÃ

- LÍNGUA PORTUGUESA: AVALIAÇÃO
- CIÊNCIAS

TARDE

- HISTÓRIA
- EDUCAÇÃO FÍSICA

Língua Portuguesa

★ **LÍNGUA PORTUGUESA: AVALIAÇÃO**

ATENÇÃO!!!

- **HOJE TEREMOS AVALIAÇÃO, A PROFESSORA FARÁ A LEITURA DA AVALIAÇÃO, ACOMPANHE COM MUITA ATENÇÃO E NÃO TENHA PRESSA PARA CONCLUIR.**

BOA SORTE!!!



CIÊNCIAS

ANIMAIS E PLANTAS DO DIA E DA NOITE

ALGUNS ANIMAIS DESCANSAM DURANTE O DIA E SAEM PARA PROCURAR ALIMENTO SOMENTE À NOITE. ESSES ANIMAIS SÃO CHAMADOS DE **ANIMAIS NOTURNOS**.

ANIMAIS QUE SAEM PARA SE ALIMENTAR DURANTE O DIA SÃO CHAMADOS DE **ANIMAIS DIURNOS**. ESSES ANIMAIS DORMEM DURANTE A NOITE.

COMPRIMENTO: 35 CENTÍMETROS.

A CORUJA CAÇA DURANTE À NOITE. ELA É UM ANIMAL NOTURNO.

COMPRIMENTO: 12 MILÍMETROS.

O VAGA-LUME SAI EM BUSCA DO SEU ALIMENTO À NOITE.

COMPRIMENTO: 5 CENTÍMETROS.

O BEIJA-FLOR VISITA AS FLORES EM BUSCA DE ALIMENTO DURANTE O DIA.

AS PLANTAS TAMBÉM PODEM SER DIURNAS OU NOTURNAS.

AS FLORES DA PLANTA CONHECIDA COMO ONZE-HORAS ABREM-SE DURANTE O DIA E FECHAM-SE AO ANOITECER. O CACTO FLOR-DE-BAILE ABRE SUAS FLORES AO ENTARDECER E FECHA-AS AO AMANHECER.

DIÂMETRO: 25 CENTÍMETROS.

FLOR-DE-BAILE ABERTA À NOITE.

DIÂMETRO: 3 CENTÍMETROS.

FLOR DA PLANTA ONZE-HORAS ABERTA PELA MANHÃ.

LIVRO BURITI PÁG:68

HISTÓRIA

CAPÍTULO 2

BRINQUEDOS E BRINCADEIRAS DO PASSADO

NA ÉPOCA EM QUE SEUS AVÓS ERAM CRIANÇAS, OS BRINQUEDOS ERAM MAIS SIMPLES. GERALMENTE ERAM FEITOS DE MADEIRA, DE PANO OU DE METAL.

HAVIA POUCOS BRINQUEDOS ELETRÔNICOS, FEITOS DE PLÁSTICO E MOVIDOS A PILHA OU A BATERIA, COMO É COMUM ATUALMENTE.

MUITAS CRIANÇAS REAPROVEITAVAM MATERIAIS QUE ENCONTRAVAM EM CASA E CRIAVAM SEUS PRÓPRIOS BRINQUEDOS.

O **CARRINHO DE ROLIMÃ** PODIA SER FEITO DE SOBRAS DE MADEIRA E RODINHAS DE AÇO, CHAMADAS DE ROLIMÃS. ESSAS RODINHAS COSTUMAVAM SER DESCARTADAS EM OFICINAS DE AUTOMÓVEIS.

UMA TIRA LONGA DE **ELÁSTICO** ERA SUFICIENTE PARA A DIVERSÃO.

NESSA BRINCADEIRA, ERA PRECISO USAR TODA A HABILIDADE DO CORPO PARA SALTAR, PISAR E ENROSCAR OS PÉS NO ELÁSTICO.

MENINA BRINCANDO COM BONECA FEITA DE CAIXA DE SAPATOS, 1956.

CRIANÇAS BRINCANDO DE PULAR ELÁSTICO, 2016.

CARRINHO DE ROLIMÃ.

LIVRO BURITI PÁG:92

EDUCAÇÃO FÍSICA

QUARTA-FEIRA
06/10

MANHÃ

- MATEMÁTICA (AVALIAÇÃO)
- GEOGRAFIA

TARDE

- OF, DE LÍNGUA PORTUGUESA
- OF. DE MATEMÁTICA

MATEMÁTICA

leitura e escrita

★ **MATEMÁTICA: AVALIAÇÃO**

ATENÇÃO!!!

- **HOJE TEREMOS AVALIAÇÃO, A PROFESSORA FARÁ A LEITURA DA AVALIAÇÃO, ACOMPANHE COM MUITA ATENÇÃO E NÃO TENHA PRESSA PARA CONCLUIR.**

BOA SORTE!!!

GEOGRAFIA

2 ALÉM DOS PROFISSIONAIS MOSTRADOS NAS PÁGINAS ANTERIORES, QUAIS OUTROS TRABALHAM NA SUA ESCOLA?

Resposta pessoal.

3 COMO VOCÊ IMAGINA QUE SERIA A ESCOLA SEM O TRABALHO DE CADA UMA DESSAS PESSOAS? CONVERSE COM OS COLEGAS E O PROFESSOR SOBRE ISSO. Resposta pessoal.

4 ESCOLHA UM PROFISSIONAL DE SUA ESCOLA E FAÇA UM DESENHO QUE REPRESENTE A ATIVIDADE QUE ELE EXERCE.

LIVRO BURITI PÁG:78

OF. L. PORTUGUESA

NOME_____

PROFESSOR(A)_____ DATA_____

LETRA B

WENIDARC CINTRA

A LETRA [B] QUER BRINCAR
COM A BOLA BAMBINA.
A BOLA BRINCA E ROLA,
PULA, PULA E ESCONDE,
BEM ATRÁS DA MENINA.

ATIVIDADES:

⇨ DESENHE SOBRE O TEXTO:

OFICINA DE MATEMÁTICA

ESCRITA DOS NÚMEROS

TREINE A ESCRITA DOS NÚMEROS:

0 0 0 0

1 1 1 1

2 2 2 2

3 3 3 3

4 4 4 4

5 5 5 5

6 6 6 6

7 7 7 7

8 8 8 8

9 9 9 9

QUINTA-FEIRA
09/09

MANHÃ

- MATEMÁTICA
- GEOGRAFIA: (AVALIAÇÃO)

TARDE

- OF. MATEMÁTICA
- EDUCAÇÃO FÍSICA

+MATEMÁTICA%

leitura e escrita

ESCOLA:_____

TURMA:_____PROFESSOR(A):_____

EU SOU:_____

1) MEU BEM! INDIQUE O NUMERAL VIZINHO QUE VEM ANTES DE:

2) AGORA, INDIQUE O NUMERAL VIZINHO QUE VEM DEPOIS DE:



GEOGRAFIA

★ **GEOGRAFIA: AVALIAÇÃO**

ATENÇÃO!!!

- **HOJE TEREMOS AVALIAÇÃO, O PROFESSOR FARÁ A LEITURA DA AVALIAÇÃO, ACOMPANHE COM MUITA ATENÇÃO E NÃO TENHA PRESSA PARA CONCLUIR,**

BOA SORTE!!!

OFICINA DE MATEMÁTICA

Escola: _____

Hoje é _____- feira. _____de _____ de 20_____

Nome:_____

Professora: _____ Turma: _____

MATEMÁTICA

1) CONTE ATÉ CINCO E DESCUBRA QUAL A MENINA QUE ESTÁ EM CIMA DO NÚMERO QUATRO.

2) NUMERE AS CENAS NA ORDEM DOS ACONTECIMENTOS.

VAMOS ESCREVER

CONTINUE A ESCREVER OS NUMERAIS EM PALAVRAS.

1 UM	U						
2 DOIS	D						
3 TRÊS	T						
4 QUATRO	Q						
5 CINCO	C						
6 SEIS	S						
7 SETE	S						
8 OITO	O						
9 NOVE	N						



EDUCAÇÃO FÍSICA

SEXTA-FEIRA
10/09

MANHÃ

- CIÊNCIAS
- LÍNGUA PORTUGUESA

TARDE

- OF. DE LÍNGUA PORTUGUESA
- HISTÓRIA

CIÊNCIAS

6 ACOMPANHE A LEITURA DO TEXTO E DEPOIS RESPONDA:

CARLA CARUSO. *BICHOS DA NOITE*. BELO HORIZONTE: EDITORA DIMENSÃO, 1998.

- EM QUAL PERÍODO DO DIA O MORCEGO SAI PARA COMER?
- O QUE O MORCEGO COME?

7 COMO VOCÊ SABE SE UM ANIMAL É DIURNO OU NOTURNO?

☐ PELO LUGAR ONDE ELE VIVE.

☐ PELO HORÁRIO EM QUE ELE COME.

8 ESCREVA **D** PARA DIURNO E **N** PARA NOTURNO.

☐ ESTA FLOR SE ABRE À NOITE.

☐ A ARARA SE ALIMENTA DURANTE O DIA.

☐ O GAMBÁ COME DURANTE A NOITE.

☐ A VACA SE ALIMENTA DURANTE O DIA.

OS ELEMENTOS DA IMAGEM NÃO ESTÃO NA MESMA PROPORÇÃO. CORES-FANTASIA.

LIVRO BURITI PÁG:69

Língua Portuguesa

ESCOLA:_____

TURMA:_____ PROFESSOR(A):_____

EU SOU:_____

1) MEU AMOR! OBSERVE OS DESENHOS E ESCREVA A LETRA INICIAL DE CADA UM, FORMANDO O ALFABETO.

Língua Portuguesa

FAÇA A LEITURA D AS PALAVRAS E COPIE EM SEU CADERNO.

B

BA-BE-BI-BO-BU-BÃO

BOI	BOBO
BIA	BAÚ
BOA	BEBÊ
BABÁ	BEBIA
OBA	BOBA

OFICINA DE
LÍNGUA PORTUGUESA

ESCOLA:_____
DATA: ____/____/_____
NOME: _____

LINGUAGEM

FAMÍLIA SILÁBICA B

CRUZADINHA



BICICLETA
BONECA
BALA
BULE
BEBÊ
BOLA
BIQUINI
BONÉ
BALEIA

notebookdaprof.blogspot.com

HISTÓRIA

O **BILBOQUÊ** ERA CONSTRUÍDO COM UMA LATA VAZIA, UM PEDAÇO DE BARBANTE E UM BASTÃO DE MADEIRA. PARA BRINCAR, ERA PRECISO JOGAR A LATA PARA O ALTO E, AO CAIR, ENCAIXÁ-LA NO BASTÃO.

OS **PÉS DE LATAS** TAMBÉM PODIAM SER FEITOS COM LATAS USADAS E BARBANTE. DEPOIS DE PRENDER O BARBANTE NAS LATAS PASSANDO PELOS FUROS, ERA SÓ SUBIR NELAS E SAIR ANDANDO.

OS BRINQUEDOS FEITOS DE MATERIAIS REAPROVEITADOS AINDA SÃO USADOS NOS DIAS ATUAIS. VOCÊ JÁ BRINCOU COM ALGUM DELES?

BILBOQUÊ FEITO DE LATA.

PÉS DE LATAS.

1 PINTE DE ACORDO COM A LEGENDA.

- BRINQUEDOS MAIS COMUNS NO PASSADO.
- BRINQUEDOS MAIS COMUNS NO PRESENTE.

TRAPEZISTA DE MADEIRA.

VIDEOGAME PORTÁTIL.

AVIÃO DE BRINQUEDO DE MADEIRA.

DRONE.

LIVRO BURITI PÁG:93

REFERÊNCIAS:

LIVRO BURITI MAIS EDITORA MODERNA 1 ANO

- **CIÊNCIAS**
- **GEOGRAFIA**
- **HISTÓRIA**

https://br.pinterest.com

https://www.eprefeituras.com.br/portal/campinadosimao

https://www.aartedeensinareaprender.com

https://www.espacoeducar.net/2019/02/36-atividades-de-alfabetizacao-ou-1-ano.html

https://paroquiasantacruzmatao.com.br

https://www.passeidireto.com/arquivo/92566162/atividades-familia-silabica-b

ESCOLA MUNICIPAL ANÍBAL KHURY NETO

ENSINO FUNDAMENTAL

DIREÇÃO: BRUNA APARECIDA DO AMARAL COSTA

PROFESSORAS: 1ºA NEIVA FERREIRA DA SILVA E

ZULEIDE GONÇALVES FREIRES PINHEIRO

PROFESSORA: 1ºB SILVIA LUCIANA DA SILVA

MARCILENE PARANHOS DA SILVA MENDES

PEDAGOGAS: VILMA ISMERALDA SILVA GUIMARÃES

SILVIA LUCIANA DA SILVA